31	基本	か　さ	かさの　計算	学習日	／

1 こうちゃの　かさと，ミックスジュースの　かさを　くらべて　みましょう。 (10点×2)

(1) こうちゃの　かさは　あわせて　どれだけですか。

1L5dL　1L　5dL

(しき)

こたえ(　　L　　dL　)

(2) こうちゃの　かさと，ミックスジュースの　かさの　ちがいは　どれだけですか。

(しき)

こたえ(　　L　)

2 つぎの　けいさんを　しましょう。 (3点×10)

(1) 2L5dL+3dL＝

(2) 3L2dL+4L＝

(3) 1L8dL+2dL＝

(4) 7dL+5L3dL＝

(5) 4L6dL−5dL＝

(6) 9L7dL−4dL＝

(7) 8L3dL−2L＝

(8) 6L1dL−3L＝

(9) 7L9dL−9dL＝

(10) 5L4dL−5L＝

3 すいそうに　水が　7L　はいっています。そこへ　2L5dL の　水を　入れます。水は　何L何dLに　なりますか。　（10点）

（しき）

こたえ（　　）

4 1L5dL　はいる　水とうに，おちゃを　8dL　いれました。おちゃは　あと　何dL はいりますか。　（10点）

（しき）

こたえ（　　）

5 りんごジュースが　2L2dL，オレンジジュースが　5dLあります。ジュースは　あわせて何L何dL　ありますか。　（10点）

（しき）

こたえ（　　）

6 おちゃが　1L　あります。300mL　のむと，のこりは　何mLに　なりますか。　（10点）

（しき）

こたえ（　　）

7 ポットに　おゆが　2L　はいっています。わたしが　5dL，おとうとが　4dL　つかいました。おゆは　何L何dL　のこっていますか。　また　それは　何mLですか。　（10点）

（しき）

こたえ（　　L　　dL），（　　mL　）

32	基本	どんな 計算に なるのかな (1)	ぜんぶで いくつ ちがいは いくつ	学習日	／

1 男の子が 22人，女の子が 24人 あつまって，おり紙(がみ)を おっています。ぜんぶで 何人 いますか。 （10点×2）

(1) しきに かいて，答(こた)えを もとめましょう。

（しき） ＝

こたえ 人

(2) (1)の しきに なる わけを かきましょう。

22＋24に なる わけは，
男の子が 22人 いて
女の子が 24人 いて
あわせる からです。

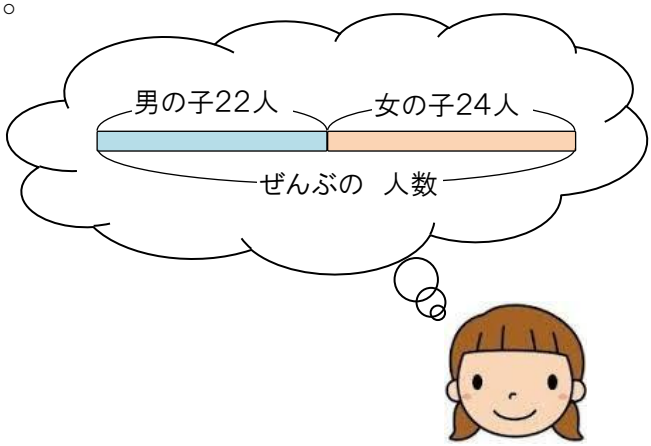

2 花(か)だんに 赤い花が 47こ，白い 花が 52こ さいています。花は ぜんぶで 何こ さいていますか。 （15点×2）

(1) しきに かいて，答(こた)えを もとめましょう。

（しき）

こたえ〔 〕

(2) (1)の しきに なる わけを かきましょう。

3 おりがみで つるを 54こ，しゅりけんを 38こ つくりました。つるの ほうを 何こ多く つくりましたか。 （10点×2）

(1) しきに かいて，答えを もとめましょう。

（しき） □ ＝ □

こたえ □こ

(2) (1)の しきに なる わけを かきましょう。

54－38に なる わけは，
つるを □こ つくって
しゅりけんを □こ つくって
ちがいを もとめるからです。

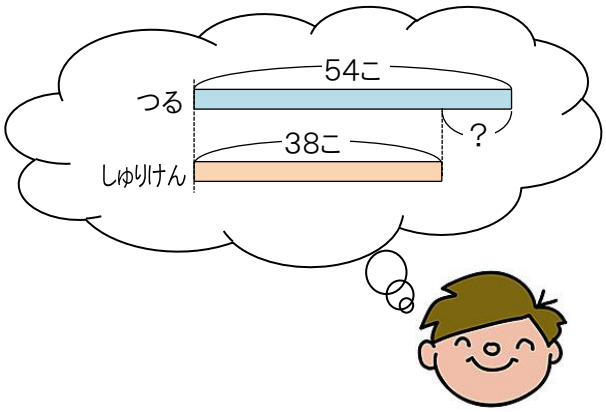

4 おかしを 買いました。ガムは 69円で，ラムネは 82円でした。ラムネの ほうが何円 たかかったでしょうか。 （15点×2）

(1) しきに かいて，答えを もとめましょう。

（しき）

こたえ〔　　〕

(2) (1)の しきに なる わけを かきましょう。

33	基本	どんな 計算に なるのかな (1)	いろんな 文しょうもんだい	学習日	／

1 はじめに 色紙が 88まい ありました。何まいか つかったら、36まい のこりました。何まい つかいましたか。 （10点）

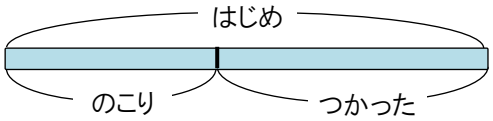

（しき）

こたえ〔　　〕

2 おかしを 92本（ほん） もらいました。いままでに 67本 たべました。おかしは あと何本 のこっていますか。 （10点）

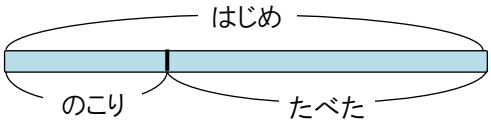

（しき）

こたえ〔　　〕

3 本を 読（よ）んでいます。いままでに 24ページ 読みましたが、まだ 35ページ のこっています。この本は ぜんぶで 何ページ ありますか。 （15点）

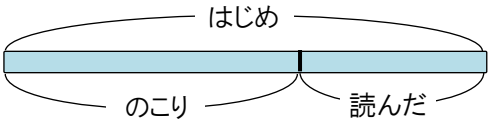

（しき）

こたえ〔　　〕

4 シールを あつめています。きょう ともだちから 9まい もらったので、ぜんぶで 50まいに なりました。いままでに 何まい もっていましたか。 （15点）

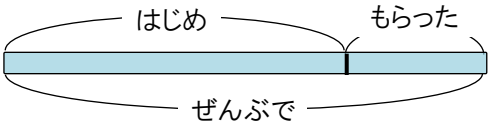

（しき）

こたえ〔　　〕

5 アメが 61こ あります。お父(とう)さんから 何こか もらったので、ぜんぶで 74こになりました。お父さんから 何こ もらいましたか。 （10点）

（しき）

こたえ〔　　〕

6 赤い 花が 48こ、白い 花が 45こ さいています。花は ぜんぶで 何こ さいていますか。 （10点）

（しき）

こたえ〔　　〕

7 90円 もって 買(か)いものに いきました。ガムを 買うと、のこりが 35円に なっていました。ガムの ねだんは 何円でしたか。 （10点）

（しき）

こたえ〔　　〕

8 うんどうじょうで せいとが あそんでいます。29人 帰(かえ)ったのですが、まだ 18人 のこっています。せいとは はじめに 何人 いましたか。 （10点）

（しき）

こたえ〔　　〕

34	基本	たし算の　ひっ算(2)	たし算(十の位に繰り上がりなし)	学習日	／

1　76本の　えんぴつと、52本の　えんぴつを　合わせます。えんぴつは　ぜんぶで何本に　なりますか。□に　あてはまる　しきや　数を　かきましょう。　（14点）

（しき）

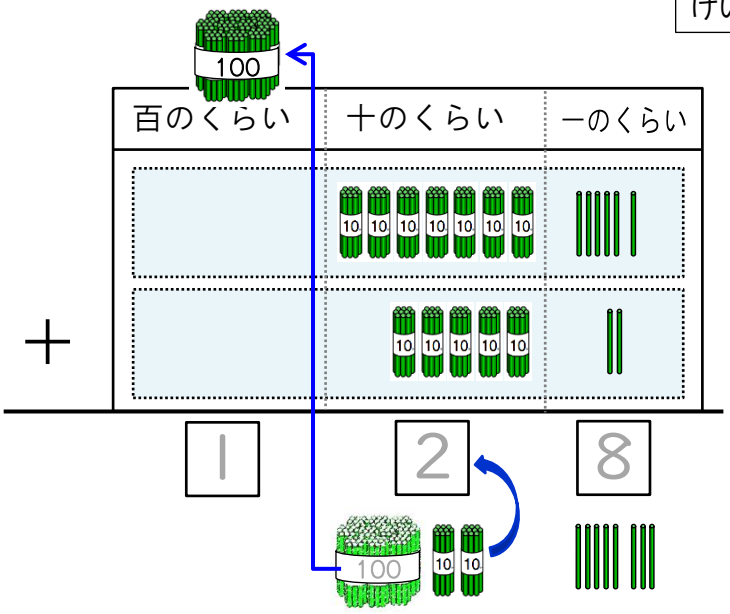

76＋52の　けい算を
たてに　ならべて
けい算　しましょう。

	7	6
＋	5	2

計算のしかた

くらいを　そろえて　かく。

一の　くらいは、　6 ＋ 2 ＝ □

十の　くらいは、　7 ＋ 5 ＝ □

百の　くらいに、　□　くり上げる。

こたえは　76＋52＝ □

2　つぎの　たし算を　ひっ算で　しましょう。　（3点×4）

(1)　84＋53

	8	4
＋	5	3

(2)　67＋92

＋		

(3)　40＋75

＋		

(4)　96＋80

＋		

3　つぎの　たし算を　しましょう。　（3点×8）

(1)
　　7 1
＋ 4 2

(2)
　　5 5
＋ 8 4

(3)
　　8 2
＋ 3 6

(4)
　　2 3
＋ 9 1

(5)
　　5 0
＋ 8 7

(6)
　　9 0
＋ 7 5

(7)
　　6 4
＋ 6 0

(8)
　　7 0
＋ 4 0

4 67本の えんぴつと、42本の えんぴつを 合わせます。えんぴつは ぜんぶで何本に なりますか。□に あてはまる しきや 数を かきましょう。 （14点）

（しき）□

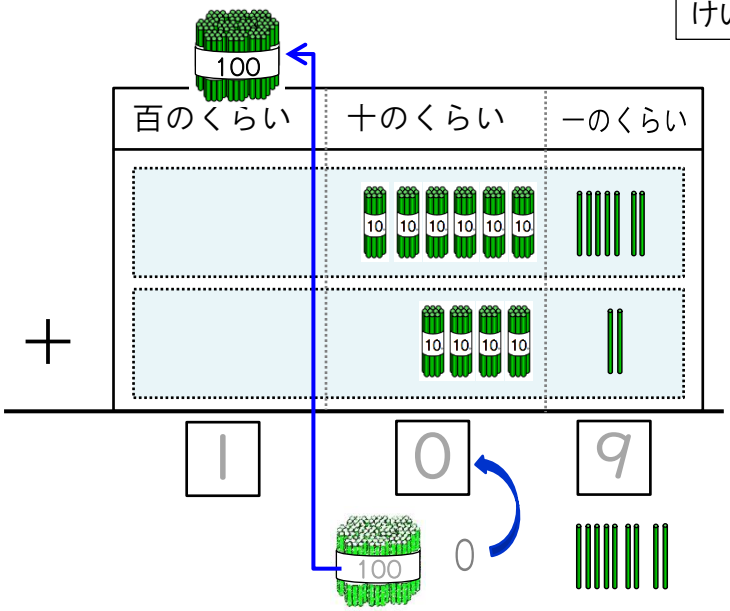

67＋42の けい算を たてに ならべて けい算 しましょう。

	6	7
＋	4	2

計算のしかた

くらいを そろえて かく。

一の くらいは、 7 ＋ 2 ＝ □

十の くらいは、 6 ＋ 4 ＝ □

百の くらいに、 □ くり上げる。

こたえは 67＋42＝ □

5 つぎの たし算を ひっ算で しましょう。 （3点×4）

(1) 25＋81

	2	5
＋	8	1

(2) 64＋43

＋		

(3) 97＋10

＋		

(4) 40＋63

＋		

6 つぎの たし算を しましょう。 （3点×8）

(1)
```
  5 4
＋ 5 2
```

(2)
```
  3 2
＋ 7 2
```

(3)
```
  7 3
＋ 3 4
```

(4)
```
  4 6
＋ 6 3
```

(5)
```
  2 0
＋ 8 5
```

(6)
```
  6 0
＋ 4 9
```

(7)
```
  5 5
＋ 5 0
```

(8)
```
  3 0
＋ 7 0
```

35	基本	たし算の　ひっ算(2)	たし算(十の位に繰り上がりあり)	学習日	／

1　76本の　えんぴつと、57本の　えんぴつを　合わせます。えんぴつは　ぜんぶで何本に　なりますか。□に　あてはまる　しきや　数を　かきましょう。　（15点）

（しき）

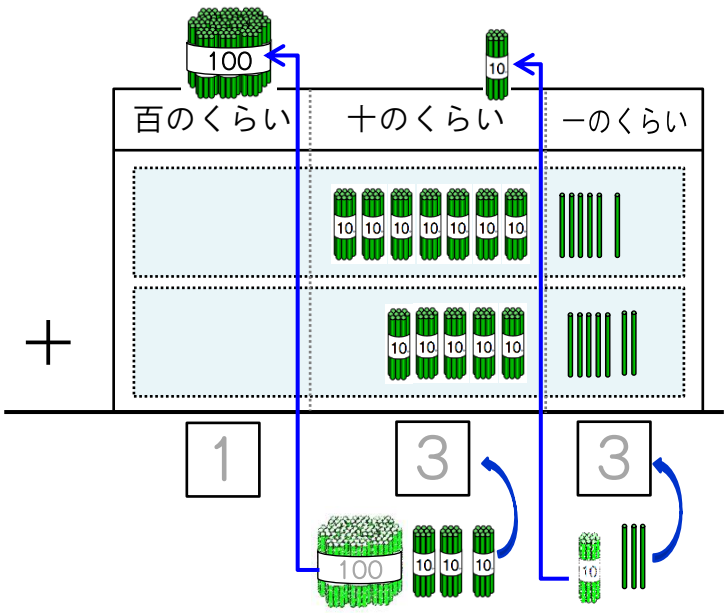

76＋57 の　けい算を
たてに　ならべて
けい算　しましょう。

	7	6
＋	5	7

計算のしかた

くらいを　そろえて　かく。

一の　くらいは、　6＋7＝□

十の　くらいに、　□　くり上げる。

十の　くらいは、　7＋5＋1＝□

百の　くらいに、　□　くり上げる。

こたえは　　76＋57＝□

2　つぎの　たし算を　ひっ算で　しましょう。　（5点×4）

(2)　69＋73

	6	9
＋	7	3

(2)　85＋17

	8	5
＋	1	7

(3)　98＋8

	9	8
＋		8

(4)　4＋96

		4
＋	9	6

3　68円の　けしゴムを　1こと，85円の　えんぴつを　1本　買(か)います。何円(なんえん)　はらえば　よいでしょうか。　しきと　答(こた)えと　計算(けいさん)を　かきましょう。　（5点×3）

（しき）

（ひっ算）

こたえ（　　）

4 つぎの たし算を しましょう。 （3点×12）

(1) $\begin{array}{r} 83 \\ +\ 59 \\ \hline \end{array}$

(2) $\begin{array}{r} 74 \\ +\ 58 \\ \hline \end{array}$

(3) $\begin{array}{r} 69 \\ +\ 47 \\ \hline \end{array}$

(4) $\begin{array}{r} 95 \\ +\ 85 \\ \hline \end{array}$

(5) $\begin{array}{r} 37 \\ +\ 68 \\ \hline \end{array}$

(6) $\begin{array}{r} 84 \\ +\ 19 \\ \hline \end{array}$

(7) $\begin{array}{r} 58 \\ +\ 46 \\ \hline \end{array}$

(8) $\begin{array}{r} 47 \\ +\ 53 \\ \hline \end{array}$

(9) $\begin{array}{r} 98 \\ +\ \ 5 \\ \hline \end{array}$

(10) $\begin{array}{r} 93 \\ +\ \ 7 \\ \hline \end{array}$

(11) $\begin{array}{r} 4 \\ +\ 99 \\ \hline \end{array}$

(12) $\begin{array}{r} 7 \\ +\ 93 \\ \hline \end{array}$

5 本が 本だなに 79さつと，リビングに 32さつ あります。本は ぜんぶで 何(なん)さつ ありますか。 （7点）

（しき）

こたえ（　　）

6 校ていに 子どもが 95人います。8人 来(く)ると ぜんぶで 何人に なりますか。 （7点）

（しき）

こたえ（　　）

36	基本	たし算の　ひっ算(2)	3つの　数の　たし算	学習日	／

1　グミと　チョコと　スナックを　買うと，何円に　なりますか。（8点＋10点）

（しき）

グミ　97円

チョコ　65円

スナック
34円

★　3つの　数の　ひっ算の　しかたを　考えましょう。

□	□	
	9	7
	6	5
＋	3	4
1	9	6

くらいを　そろえて
たてに　3だんに
かきます。

計算のしかた

◉　くらいを　たてに　そろえて　かく。

一のくらいの計算

①　一の　くらいは、7＋5＋4＝□

②　十の　くらいに、□　くり上げる。

十のくらいの計算

十の　くらいは、くり上げた□とで、9＋6＋3＋1＝□

百の　くらいに、□　くり上げる。

こたえは　　97＋65＋34＝□

●　つづいた　計算は、くふうを　すると　かんたんに　なることが　あります。
（れんしゅう）　（3点×4）

(1)　7＋5＋4＝

(2)　6＋8＋2＝

(3)　9＋6＋3＋1＝

(4)　2＋5＋8＋6＝

2　つぎの　たし算を　ひっ算で　しましょう。（5点×4）

(1)　36＋21＋40

□	□	
＋		

(2)　58＋69＋32

□	□	
＋		

(3)　16＋97＋68

□	□	
＋		

(4)　84＋47＋79

□	□	
＋		

3 つぎの たし算を しましょう。 （3点×12）

(1)
```
  24
  30
+ 13
```

(2)
```
  75
  42
+ 61
```

(3)
```
  53
  94
+ 62
```

(4)
```
  80
  76
+ 83
```

(5)
```
  46
  27
+ 24
```

(6)
```
  39
  75
+ 51
```

(7)
```
  84
  58
+ 76
```

(8)
```
  65
  97
+ 98
```

(9)
```
  37
  16
+ 28
```

(10)
```
  45
  88
+ 66
```

(11)
```
  79
  68
+ 97
```

(12)
```
  87
  96
+ 78
```

4 2年生は，1組（くみ）が 29人，2組が 28人，3組が 29人います。2年生は ぜんぶで 何人（なん） いますか。 （7点）

（しき）

こたえ（　　）

5 65円の えんぴつを 2本と，88円の けしゴムを 1こ 買（か）うと 何円に なりますか。 （7点）

（しき）

こたえ（　　）